Муниципальное бюджетное дошкольное образовательное учреждение
«Детский сад комбинированного вида №11»
Алексеевского городского округа

Презентация

«Занимательная математика для детей 6 – 7 лет»

Левочкина Ольга Андреевна

2020 г

Уважаемые родители!

Предлагаем Вам игры и упражнения на развитие логического мышления у вашего ребенка.

Ваши дети очень активны в восприятии задач - шуток, головоломок, логических упражнений. Они настойчиво ищут ход решения, который ведет к результату. В том случае, когда занимательная задача доступна ребенку, у него складывается положительное эмоциональное отношение к ней, что и стимулирует мыслительную активность. Ребенку интересна конечная цель: сложить, найти нужную фигуру, преобразовать, которая увлекает его.

«Отвечай-ка»

10 2 11 7

9 11 3 1

15 4 5 13

4

*назови числа в порядке возрастания

*назови числа в порядке убывания

*назови числа, которые меньше 7

*назови числа, которые больше 3

*назови числа, которых нет (в пределах 10)

*какие числа повторяются

«Решайка»

10-4=

7+3=

10+2=

12-2=

5+4=

8+5=

Кто быстрее?

Мальчики

Зачини только примеры с ответом 4

1+2=

7-3= 4

4-2=

3+2=

5-1= 4

1+3= 4

6-3=

8-4= 4

2+2= 4

6-1=

Девочки

Зачини только примеры с ответом 5

2+2=

8-3= 5

6-1= 5

1+3=

3+2= 5

10-5= 5

7-3=

9-2=

4+1= 5

3+3=

«Заселяй-ка»

Поставь пропущенные знаки

11	10	12	20	20	3
16	6	19	18	10	20
4	14	20	2	12	13

меньше равно больше

Какой вид сверху соответствует пирамидке

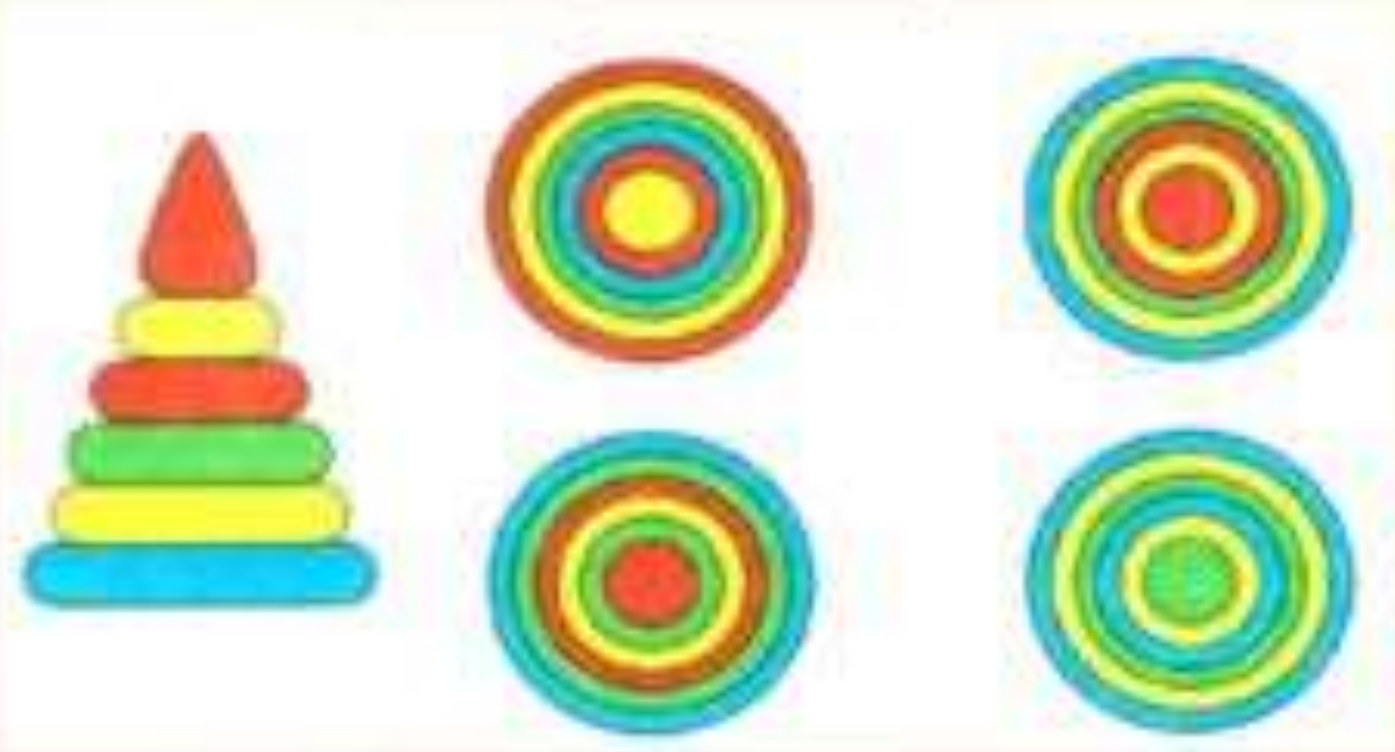

Решим задачи

У наседки 8 цыплят.
2 цыплёнка чёрных, а остальные жёлтые.
Сколько жёлтых цыплят у наседки?

По пустыне шло 7 верблюдов.
2 верблюда зашли на водопой.
Сколько верблюдов пошло дальше?

Арифметический диктант

1. Запиши число, следующее за числом 11;
2. Запиши число, которое стоит перед числом 15;
3. Какое число находится между числами 9 и 11;
4. Назови соседей числа 14;
5. Увеличь 15 на 1;
6. Уменьши 10 на 1 и ещё раз на 1;
7. Семь – это 3, да ещё скоько?

Мы решали и устали,
Тихо, дружно с места встали!

Разгадываем кроссворд

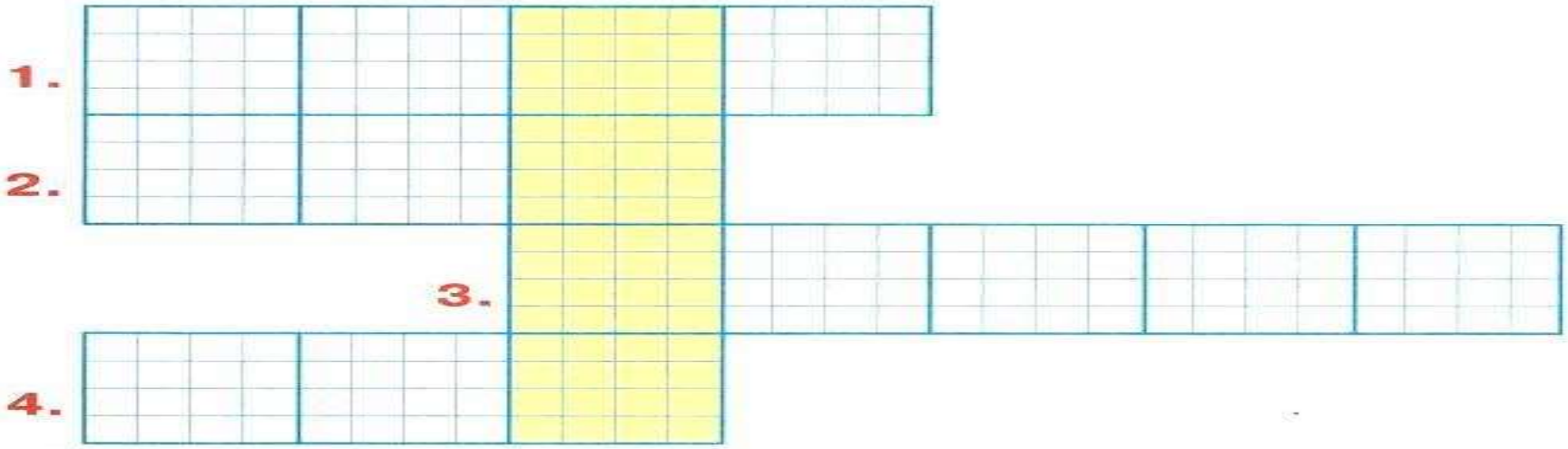

1. Медведь принёс для Машеньки из леса душистую малину. Сначала девочка съела 3 ягоды, а потом ещё 4. Сколько всего ягод малины съела Машенька?
2. Утром Машенька испекла для медведя пирог с капустой, а вечером — с мясом. Сколько всего пирогов испекла девочка в этот день?
3. Пока Машенька жила в избушке у медведя, она успела подружиться с 4 зайцами и 2 ежами. Сколько всего друзей было у девочки в лесу?
4. Машенька велела медведю наколоть для печки 5 поленьев. Медведь наколол только 3. Сколько поленьев ему осталось наколоть?

«Отгадай – ка?»

Шерсть у кота Васьки темнее , чем у Мурзика, но светлее, чем у Пушка.
Какой кот самый светлый?
Какой кот самый тёмный?

«Подумай – ка?»

Общая стоимость фруктов по вертикали и горизонтали указана в таблице. Найди цену АРБУЗА.

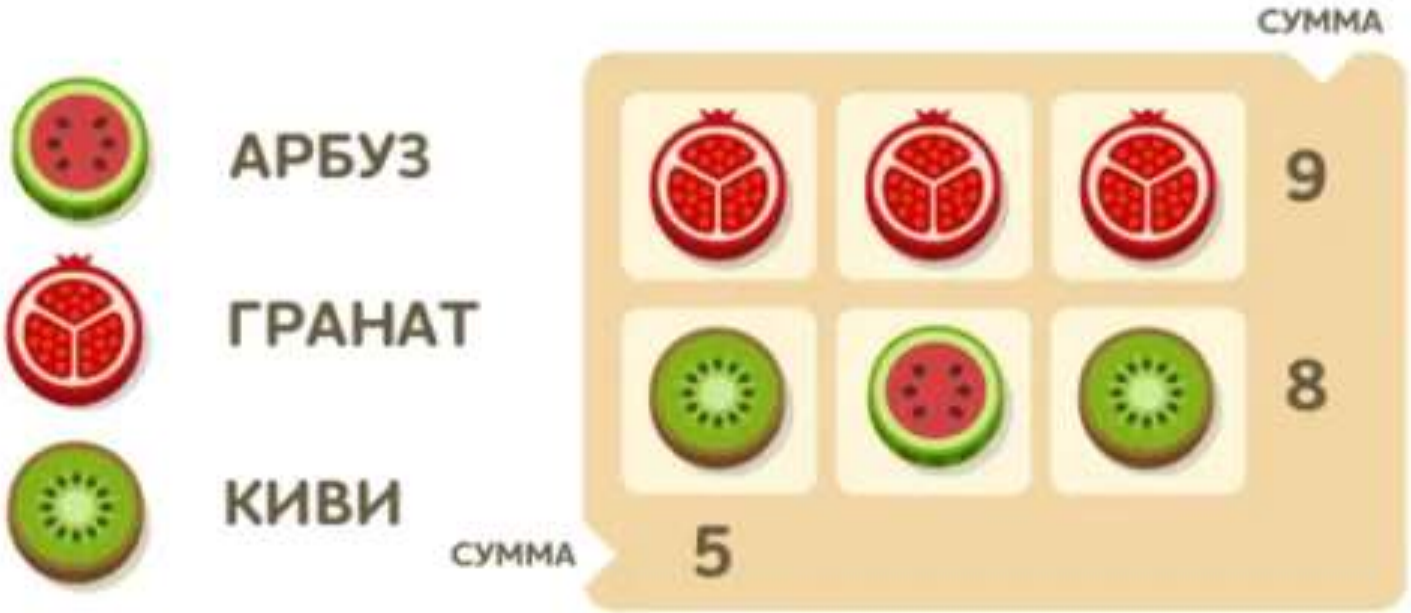

Задача от **www.logiclike.com**

logiclike

Помоги Аленке.

На столе лежат кубики. Хватит ли их, чтобы сделать постройку, которую представляет Алёнка?



Задача от **www.logiclike.com**

logiclike

«В какое зеркало посмотрел Клоун?»

Клоун посмотрел на себя в зеркало.
Какое изображение он там увидел?

Задача от **www.logiclike.com**

logiclike

«Что лишнее?»

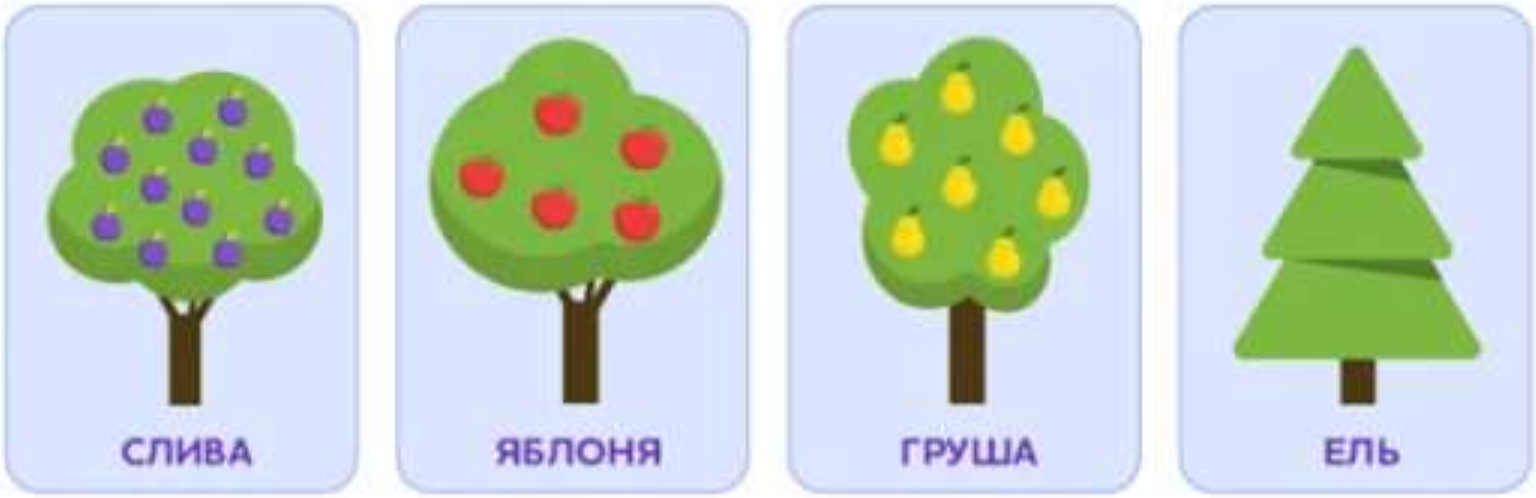

У трёх деревьев есть общий признак.
Какое дерево лишнее в ряду?

Задача от **www.logiclike.com**

logiclike

Спасибо за внимание!